Exercice 5

Le quel de ces trois programmes vient d'être éxécuté?

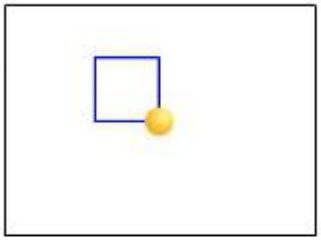

(90) à droite
(-90) à gauche
(0) vers le haut
(180) vers le bas

Prog. A

Prog. B

Prog. C

Exercice 7
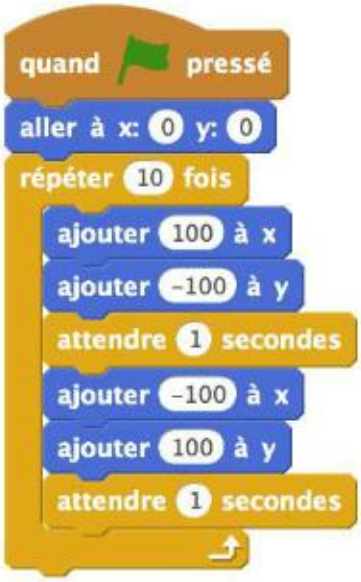
Au lancement du programme, que va faire le lion ?